２０２５年度　文部科学省　中卒認定　理科　目・植物の受精・地層

文部科学省　２０２５年度　中学校卒業程度認定試験　理科

文部科学省ウェブサイト利用規約（公共データ利用規約　第１．０版準拠）

対象ページを抜粋し、出典表紙を追加。

https://www.mext.go.jp/content/20260326-mxt_syogai02-mext_000045426_04.pdf

https://www.mext.go.jp/b_menu/1351168.htm

2

(1) 図はヒトの目の横断面を模式的に表したものである。レンズの働きの説明として正しいものはどれか。答えは，**ア**から**エ**までの中から一つ選んで，解答用紙のらんのその記号を○で囲みなさい。

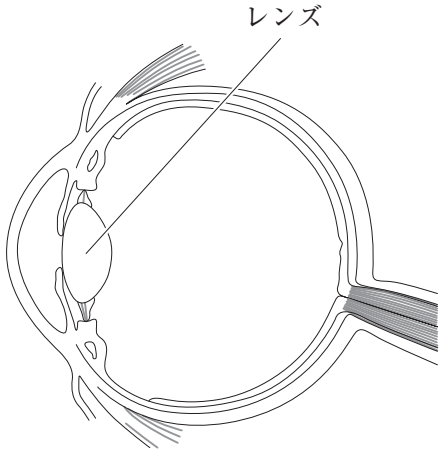

ア　受け取った刺激を脳へ送る。

イ　光の刺激を受け取る。

ウ　物体からの光を屈折させる。

エ　瞳の大きさを変え，光の量を調節する。

(2) 図は，被子植物が受粉した後のめしべの断面を模式的に表したものである。**A**・**B**の名称の組合せとして正しいものはどれか。答えは，**ア**から**エ**までの中から一つ選んで，解答用紙のらんのその記号を○で囲みなさい。

	A	B
ア	卵	精子
イ	卵細胞	精細胞
ウ	精子	卵
エ	精細胞	卵細胞

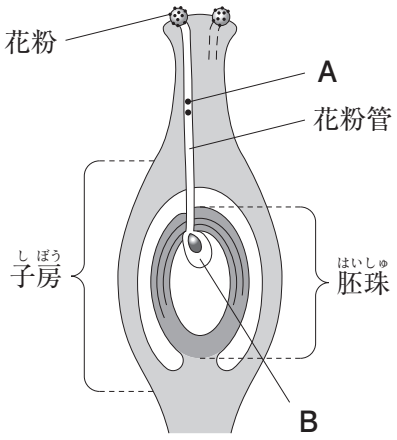

(3) 地層が堆積した当時の環境を知る手掛かりになる化石として最も適当なものはどれか。答えは，**ア**から**エ**までの中から一つ選んで，解答用紙のらんのその記号を○で囲みなさい。

ア



フズリナ

イ



アンモナイト

ウ

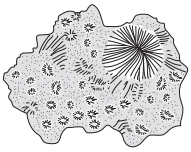

サンゴ

エ



サンヨウチュウ

(4) 図の矢印は日本付近の海洋プレートの動く向きを表している。震源を・で表したとき，震源の分布を示しているのはどれか。答えは，**ア**から**エ**までの中から最も適当なものを一つ選んで，解答用紙のらんのその記号を○で囲みなさい。

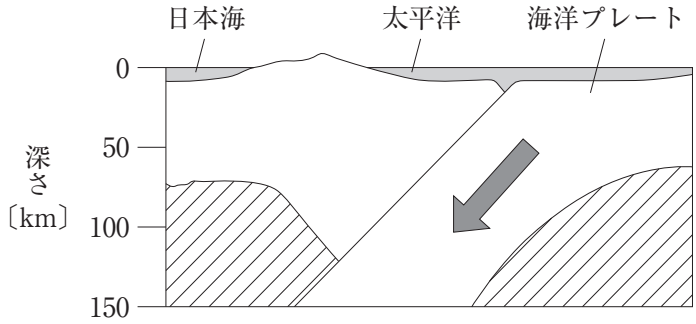

ア

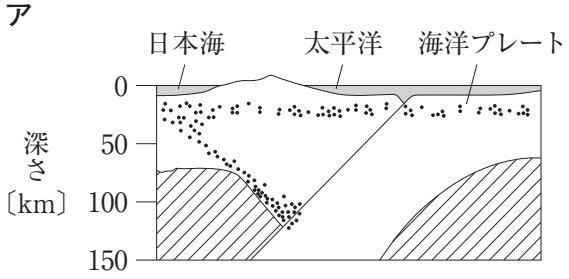

イ

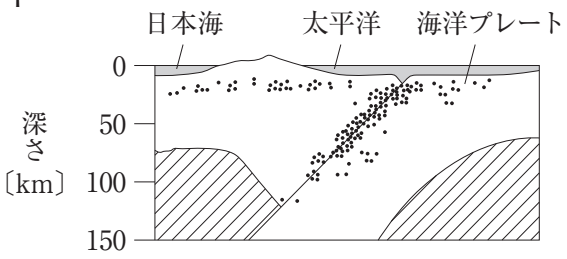

ウ

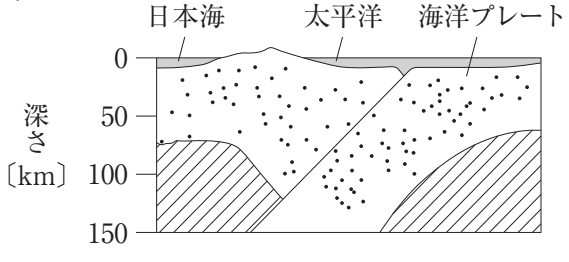

エ

