２０２２年度　文部科学省　中卒認定　数学　二乗に比例する関数の

文部科学省　２０２２年度　中学校卒業程度認定試験　数学

文部科学省ウェブサイト利用規約（公共データ利用規約　第１．０版準拠）

対象ページを抜粋し、出典表紙を追加。

https://www.mext.go.jp/content/20240823-mxt_syogai02-mext_000025638_03sugaku.pdf

https://www.mext.go.jp/b_menu/1351168.htm

ア

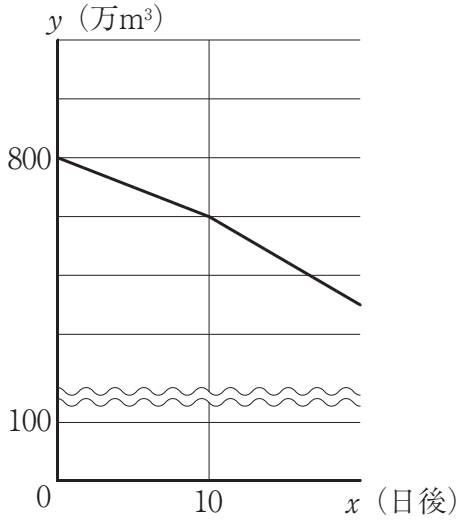

イ

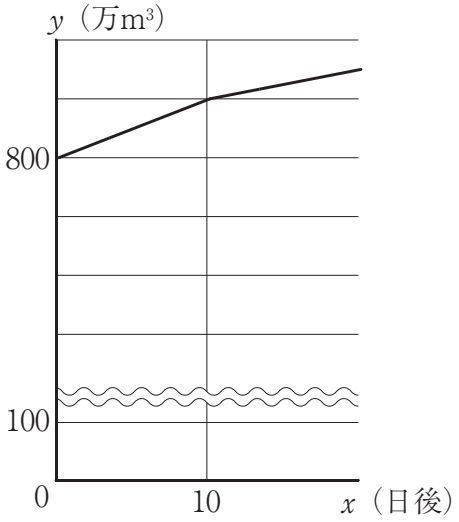

ウ

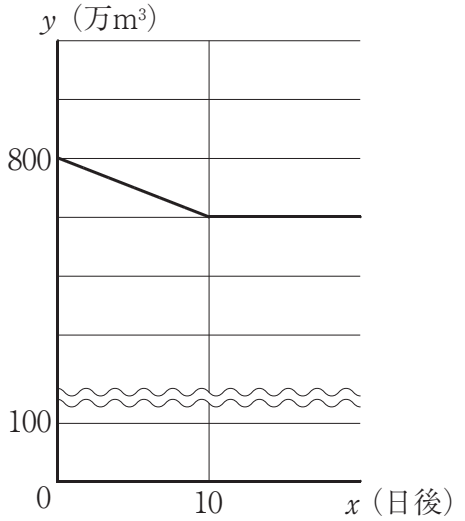

エ

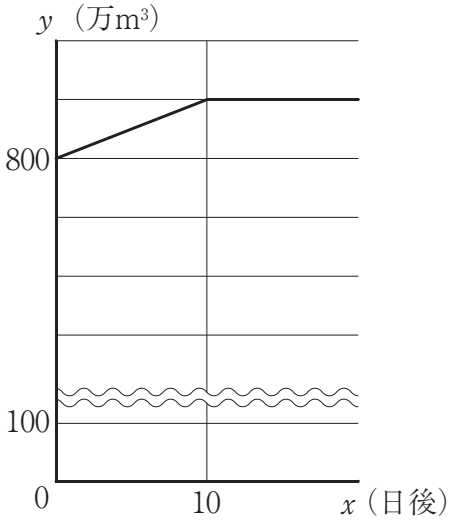

オ

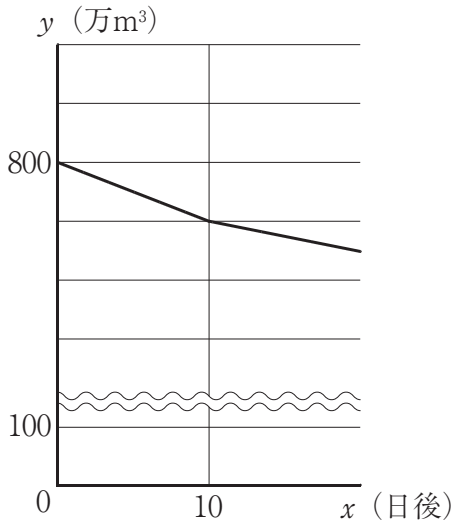

カ

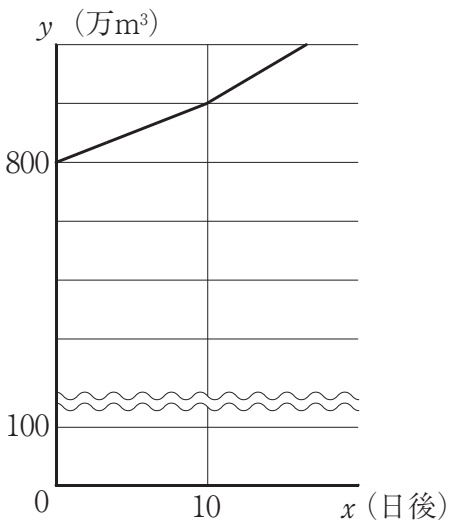

2　$y = ax^2$ のグラフが点（2, －8）を通るとき，a の値を求めなさい。