２０２１年度　文部科学省　中卒認定　理科　晴れの天気記号と星の

文部科学省　２０２１年度　中学校卒業程度認定試験　理科

文部科学省ウェブサイト利用規約（公共データ利用規約　第１．０版準拠）

対象ページを抜粋し、出典表紙を追加。

https://www.mext.go.jp/content/20230427-mxt_syogai02-mext_1422378_04rika.pdf

https://www.mext.go.jp/b_menu/1351168.htm

(3) 晴れている状態には「快晴」と「晴れ」の２種類があります。「晴れ」を表す天気の記号と，「晴れ」の天気の雲量の正しい組合せを示したものはどれか。答えは，**ア**から**エ**までの中から最も適当なものを一つ選んで，解答用紙のらんのその記号を○で囲みなさい。

	「晴れ」を表す天気の記号	「晴れ」の天気の雲量
ア	◯	0
イ	◯	0と1
ウ	◐	1から9
エ	◐	2から8

(4) 図は日本で南の空に南中したオリオン座を観測したときのスケッチである。このオリオン座が，この後，地平線に沈むときのようすとして適切なのはどれか。答えは，**ア**から**エ**までの中から最も適当なものを一つ選んで，解答用紙のらんのその記号を○で囲みなさい。

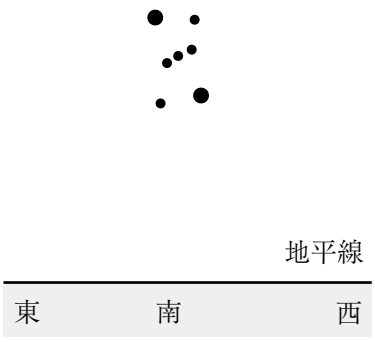

ア



イ



ウ

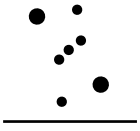

エ

