# 工業地帯・輸出・中部の気候と産業

北海道教育委員会　令和 8 年度公立高等学校入学者選抜　社会

北海道教育委員会　二次利用条件

掲載ページから権利未確認の素材を除去し、出典表紙を追加。

https://www.koukou.hokkaido-c.ed.jp/gakuryokukensa/r08gakuryoku/r08nyuusi_syakai.pdf

https://www.dokyoi.pref.hokkaido.lg.jp/hk/gks/SecondaryUse.html

**B** 略地図を見て，次の問いに答えなさい。

**略地図**

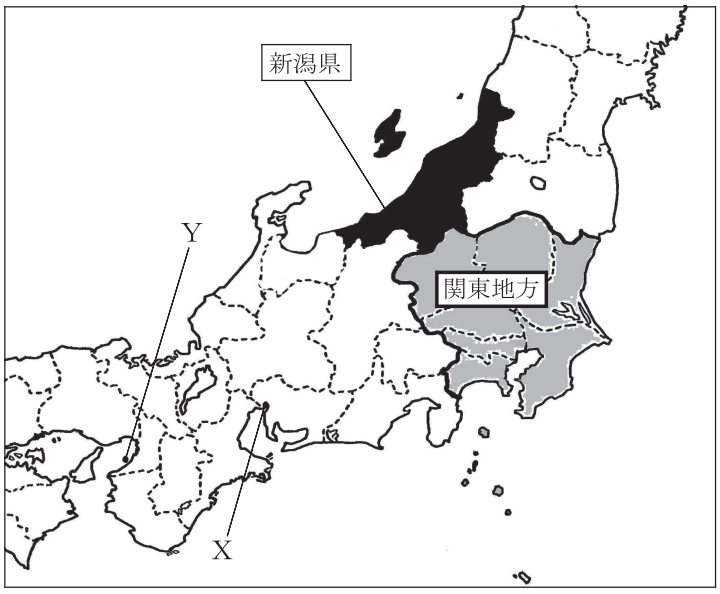


問１　A，Bのグラフは，それぞれ関東地方にある北関東工業地域と京葉工業地域いずれかの製造品出荷額とその割合を示したものです。京葉工業地域のグラフに当てはまるものをA，Bから選びなさい。また，選んだ理由を，立地に着目して説明しなさい。

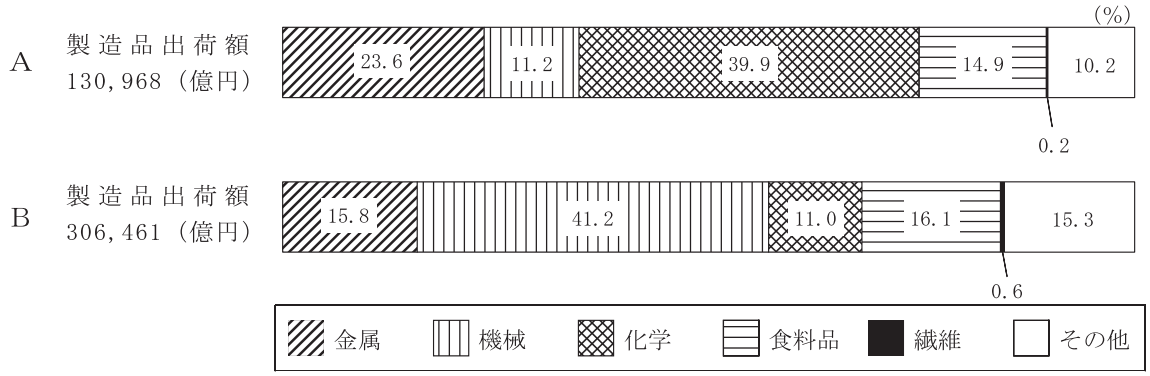


※　データは2021年。（日本国勢図会2024/25より作成）

問２　グラフ１，２は，それぞれ，略地図の貿易港である，Xの港とYの空港いずれかの輸出総額の内訳を示したものです。グラフ１が当てはまる貿易港を，略地図のX，Yから選びなさい。また，この貿易港の名を書きなさい。

**グラフ１**

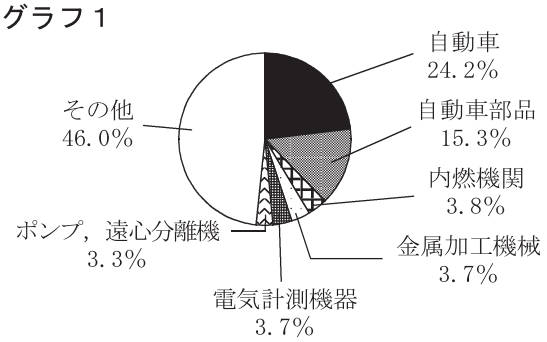


**グラフ２**

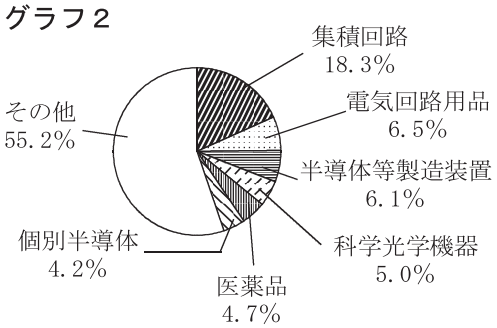


※　データは2022年。（日本国勢図会2024/25より作成）

問３　次のレポートは，略地図の新潟県に住む中学生が作成したものの一部です。［　　］に共通して当てはまる内容を簡単に書きなさい。また，［　　］に共通して当てはまる語句を書きなさい。

**レポート**

【問い】私たちの地域では，どのような気候の特色を産業に生かしているのだろうか。

【収集した資料と考察】

中部地方の主な都市の降水量

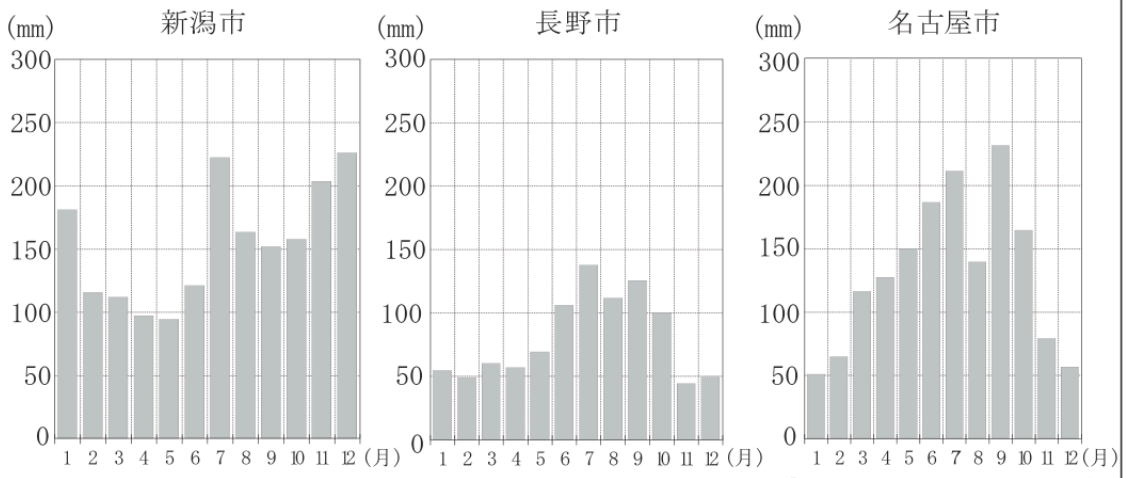


（「日本の統計2024年版」より作成）

気候の特色：新潟市のある中部地方の日本海側は，中部地方の太平洋側や内陸と比較して冬の［　　］。

気候の特色を生かして

写真は，小千谷縮と呼ばれる織物を雪にさらしている様子を写したものです。中部地方の日本海側では，冬の農閑期を利用して，手工業など，地域と密接に結びついた産業が発達しました。

| 順位 | 県 | 発電電力量（百万kWh） |
|---|---|---|
| 1 | 岐阜 | 8,699 |
| 2 | 富山 | 8,362 |
| 3 | 新潟 | 6,873 |
| 4 | 長野 | 6,672 |

（「データでみる県勢2025」より作成）

表は，日本における2023年度の［　　］による電力量の多い上位４県を示したものです。新潟県では，冬の［　　］ことを生かして［　　］の発電所が多く作られました。

【新たな疑問】

中部地方の内陸部である岐阜県や長野県でも，［　　］による電力量が多いのはなぜだろう。