世界地図・貿易・国際分業

北海道教育委員会　令和 8 年度公立高等学校入学者選抜　社会

北海道教育委員会　二次利用条件

対象ページを抜粋し、出典表紙を追加。

https://www.koukou.hokkaido-c.ed.jp/gakuryokukensa/r08gakuryoku/r08nyuusi_syakai.pdf

https://www.dokyoi.pref.hokkaido.lg.jp/hk/gks/SecondaryUse.html

3　次の**A**, **B**に答えなさい。（配点　22）

A　略地図１を見て，次の問いに答えなさい。

略地図１

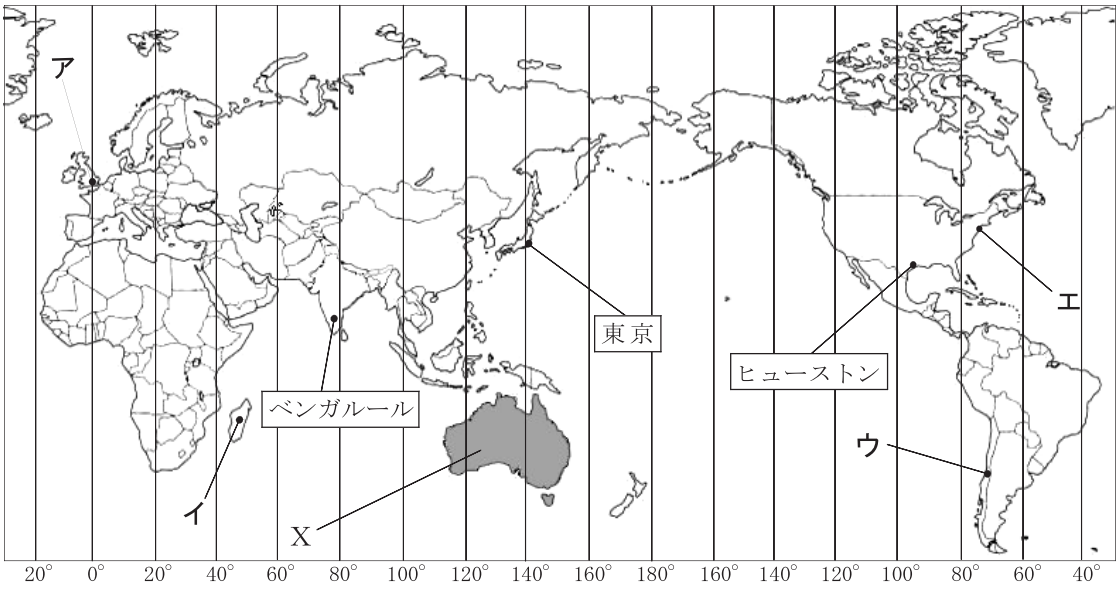

問１　略地図２は，東京を中心に，東京からの距離と方位が正しくなるようにつくられた地図です。略地図２を参考にし，東京からの実際の距離が最も近い都市を，略地図１の**ア**～**エ**から選びなさい。

略地図２

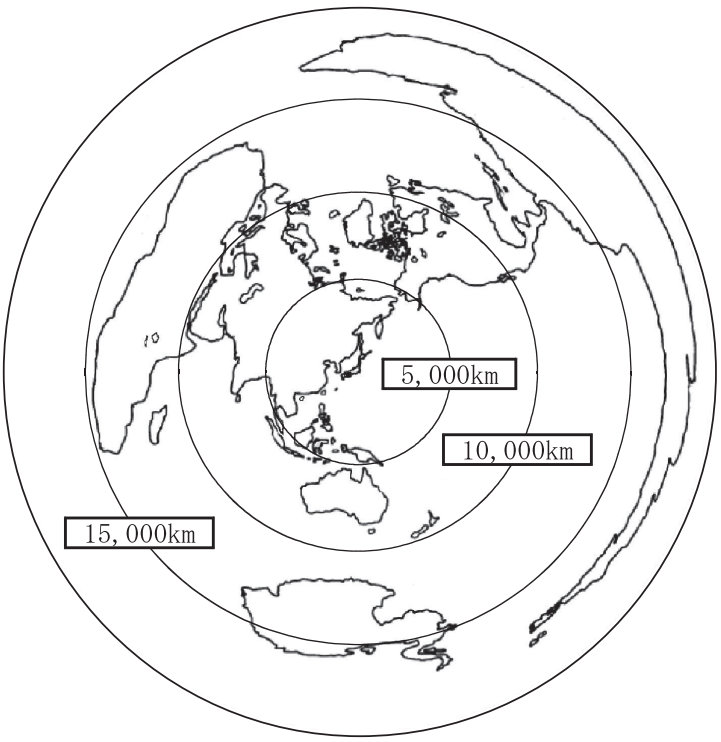

問２　グラフは，2022年の日本における，略地図１のＸの国からの輸入総額とその内訳を示したものです。グラフの［　　］と，グラフから読みとったことがらを述べた次の文の［　　］に共通して当てはまる語句を書きなさい。また，｛　　｝に当てはまる語句を，**ア**～**ウ**から選びなさい。

グラフ

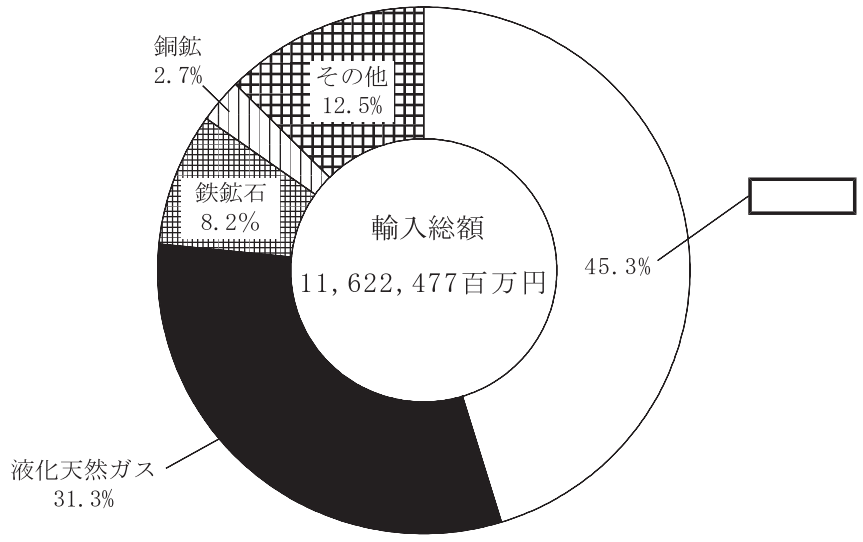

（日本国勢図会2024/25より作成）

2022年のＸの国との貿易において，日本は，火力発電の燃料として多く利用される［　　］を輸入しており，その額はおおよそ｛**ア**　５兆　　**イ**　5,000億　**ウ**　500億｝円である。

問３　略地図１のベンガルールにあるコールセンターには，略地図１のヒューストンにある企業の電話対応の業務を行っているところがあります。ヒューストンにある企業が，ベンガルールでも電話対応を行う利点を，２つの都市の位置の関係をふまえ，説明しなさい。