世界史・九州と北海道・裁判・企業

北海道教育委員会　令和７年度公立高等学校入学者選抜　社会

北海道教育委員会　二次利用条件

掲載ページから権利未確認の素材を除去し、出典表紙を追加。

https://www.koukou.hokkaido-c.ed.jp/gakuryokukensa/r07gakuryoku/r07nyuusi_syakai.pdf

https://www.dokyoi.pref.hokkaido.lg.jp/hk/gks/SecondaryUse.html

⑵　次の文の｛　　｝に当てはまる語句を，**ア**，**イ**から選びなさい。また，［　　］に当てはまる語句を書きなさい。

16世紀の初め，ヨーロッパでは，｛**ア**　キリスト教　　**イ**　イスラム教｝のカトリック教会においてローマ教皇が資金を集めるための免罪符の販売を認めると，ドイツのルターがローマ教皇やカトリック教会を批判し，［　　］が始まった。こうした［　　］とよばれる動きは，スイスでも起こった。

⑶　次の文の［　　］に当てはまる人の名を書きなさい。また，｛　　｝に当てはまるものを，**ア**，**イ**から選びなさい。

明智光秀を倒して織田信長の後継者となった［　　］は，略地図２の｛**ア**　X　　**イ**　Y｝の場所に城を築き，全国統一の拠点とした。

また，［　　］は，太閤検地や刀狩などの政策を行った。

略地図２

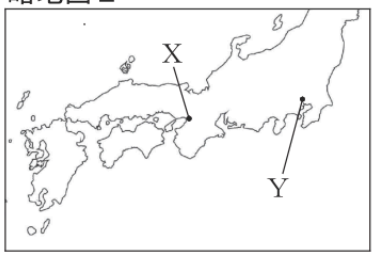

問３　次の⑴～⑶に答えなさい。

⑴　次の文の［　　］に当てはまる語句を書きなさい。

写真は，天皇が最高裁判所長官を任命する親任式の様子である。最高裁判所長官の任命は，天皇が行う［　　］の一つである。

天皇が［　　］を行うときは，内閣の助言と承認が必要である。

⑵　次の文の［　　］に当てはまる語句を書きなさい。

日本国憲法は，「すべて国民は，法の下に平等であって，人種，信条，性別，社会的身分又は門地により，政治的，経済的又は社会的関係において，差別されない。」と定めている。

このことに関して，例えば，2019年に，［　　］の人々が日本列島北部周辺，とりわけ北海道の先住民族であることを明記し，［　　］の人々が民族としての誇りをもって生活することができ，その誇りが尊重される社会の実現を目指して，［　　］施策推進法（［　　］民族支援法）が制定された。

⑶　わが国の裁判所の権限の一つである違憲審査権とは，どのような権限ですか。「法律」という語句を使い，簡単に書きなさい。

問４　スライドは，ある中学生が，略地図３のＡ～Ｅのいずれかの県について考察し，まとめたものです。スライドと略地図３を見て，次の⑴，⑵に答えなさい。

スライド

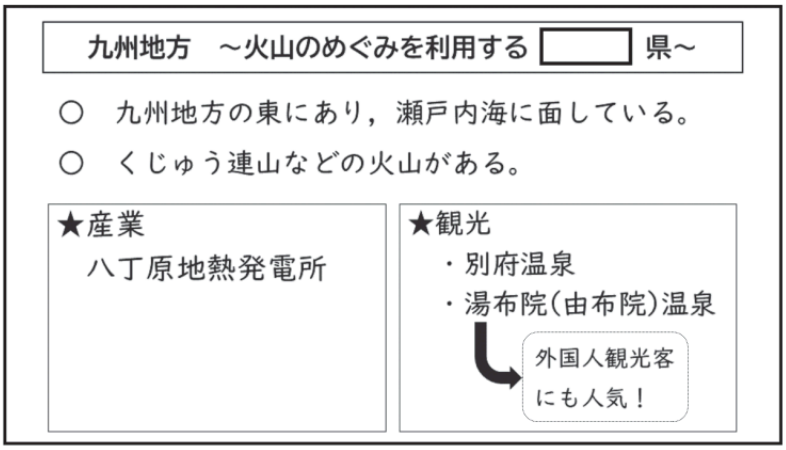

略地図３



⑴　スライドの［　　］に当てはまる県の名を書きなさい。また，その県を，略地図３のＡ～Ｅから選びなさい。

⑵　スライドは，どのような問いから考察されたものだと考えられますか，最も適当なものを**ア**～**エ**から選びなさい。

ア　九州地方の伝統文化は，人々にどのように受け継がれているのだろうか。

イ　九州地方の都市や農村は，人口の変化からどのような影響を受けているのだろうか。

ウ　九州地方の自然環境は，人々の生活や産業にどのように生かされているのだろうか。

エ　九州地方での交通網の整備は，人々の生活をどのように変化させたのだろうか。

問５　日本固有の領土である北方領土のうち，略地図４のＸ，Ｙの島の名の組み合わせとして正しいものを，**ア**～**エ**から選びなさい。

ア　Ｘ－国後島　Ｙ－色丹島

イ　Ｘ－国後島　Ｙ－歯舞群島

ウ　Ｘ－択捉島　Ｙ－色丹島

エ　Ｘ－択捉島　Ｙ－歯舞群島

略地図４

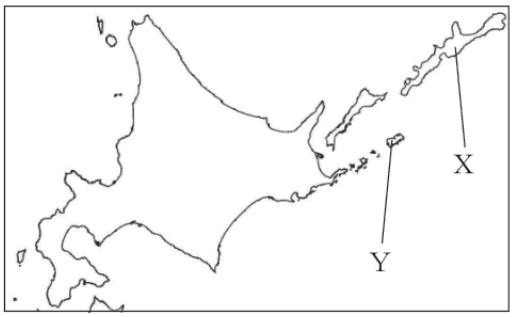

問７　次の⑴，⑵に答えなさい。

⑴　図は，ある中学生が，株式会社のしくみについて調べ，まとめたものです。図の［　①　］，［　②　］に当てはまる語句を，**ア**～**オ**からそれぞれ選びなさい。

図

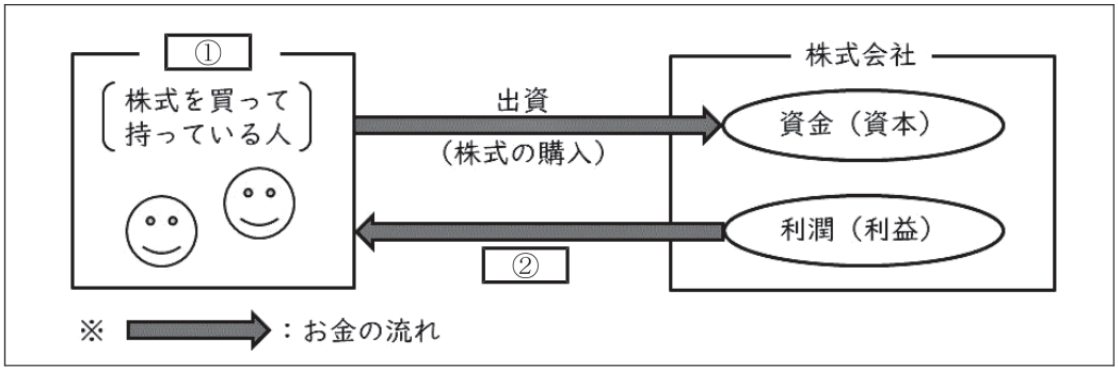

ア　金利　　**イ**　株主　　**ウ**　株価　　**エ**　配当　　**オ**　取締役

⑵　資料６，７は，ある中学生が，日本の国際貢献について調べた際に収集したものです。日本政府による，このような技術や資金の協力のことを何といいますか，書きなさい。

資料６

カンボジアで，日本の技術者が水道管の管理について指導をしている様子

資料７

日本の資金協力で建設された「日本・エジプト友好橋」をデザインした切手